世界地理演習

100 点が取れたら切り取ろう！

第１回　問１　５０点　問２　３０点　問３　２０点

点

問１　次の略地図は，シベリア地方を除いたアジア州を五つに分けて描いたものです。
中央アジアとよばれるのは，図中のどの模様で示された地域ですか。
次の**ア**～**エ**のうちから**一つ**選び，その記号を書きなさい。　2013 岩手

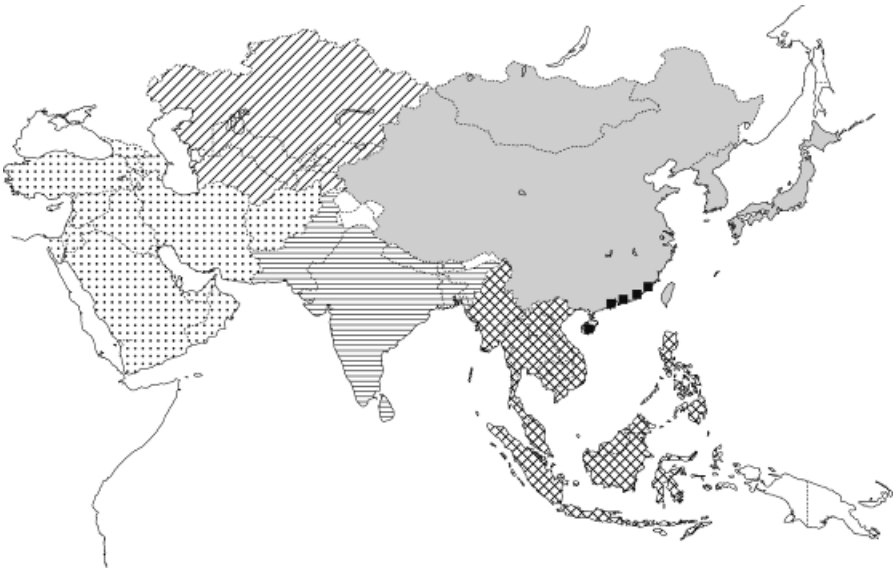

ア　　イ　　ウ　　エ

問２　**地図**の㋐～㋓の国から，領土内を赤道が通っている国を，一つ選んで記号を書きなさい。2014 秋田

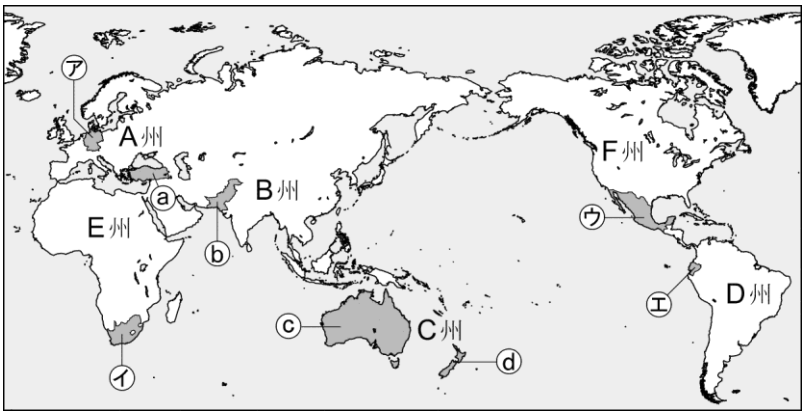

問３　上の図でオセアニア州はどこに位置しますか。Ａ～Ｅの記号で答えなさい。2014 宮城類題

世界地理演習

100 点が取れたら切り取ろう！

第１回　解答

問１　イ

中央アジアは，カザフスタンやウズベキスタンなどをふくむ地域。

アは西アジア，**ウ**は南アジア，**エ**は東南アジア。

問２　エ

赤道はアフリカ大陸のギニア湾，マレー半島の先端付近，南アメリカ大陸の北部を通る。

㋓のエクアドルは，国名がスペイン語で「赤道」という意味である。

問３　C

世界地理演習

100 点が取れたら切り取ろう！

第２回　問１　２０点　問２　２０点　問３　４０点　問４　２０点

点

次の**模式図**は，地球を陸地が最も多く見えるように示したものである。

模式図

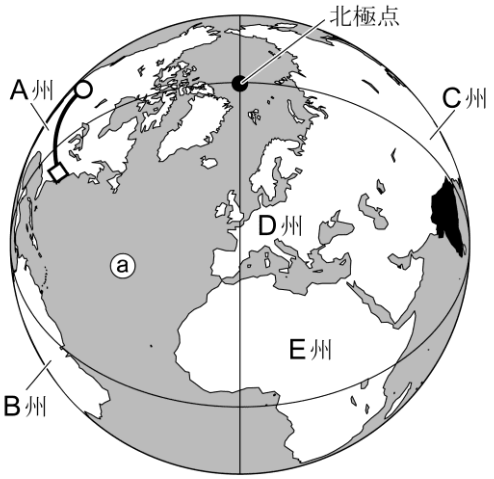

※●は，インドの位置を示す。

図１　A州の○―□間の断面図

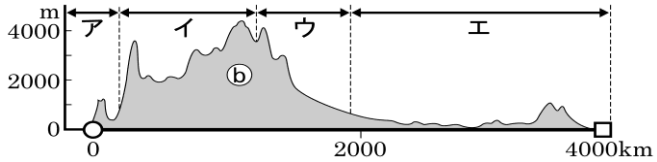

問１　ⓐは，世界の三大洋のうちの一つである。ⓐの海洋名を書きなさい。

問２　地球の中心を通り，日本の正反対にある州を，A～E州から一つ選んで記号を書きなさい。

問３　南極大陸をのぞいた世界の大陸のうち，模式図に**まったく表されていない大陸**の略地図をかきなさい。ただし，**位置**や**形**，**大きさ**に注意してかくこと。

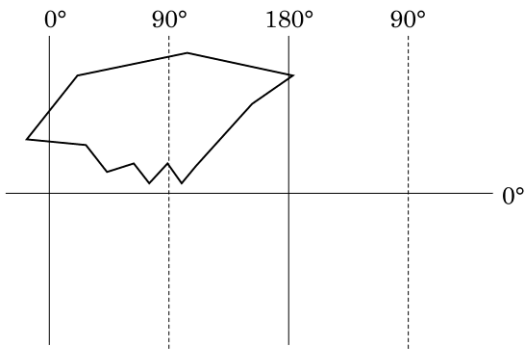

問４　**図１**のⓑの山脈名を書きなさい。　2015 秋田

世界地理演習

100 点が取れたら切り取ろう！

第２回　解答

問１　大西洋

三大洋とは太平洋・大西洋・インド洋の３つ。ⓐは，東にＤ州のヨーロッパ州とＥ州のアフリカ州，西にＡ州の北アメリカ州とＢ州の南アメリカ州があるので，大西洋である。

問２　B

地球上で日本の正反対にある地点はブラジルやウルグアイあたりの洋上なので，南アメリカ州である。

問３

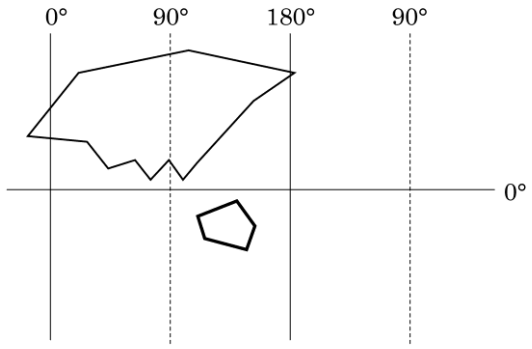

南極大陸をのぞいて模式図に表されていない大陸はオーストラリア大陸である。

０度の緯線（赤道）より南で，東経 90 度の経線と 180 度の経線の間に，五角形に近い形でかく。

問４　ロッキー山脈

図１より，ⓑは北アメリカ大陸の西部に連なる険しい山脈とわかるので，ロッキー山脈である。

世界地理演習

100 点が取れたら切り取ろう！

第３回　問１　３０点　問２　２０点　問３　３０点　問４　２０点

点

略地図

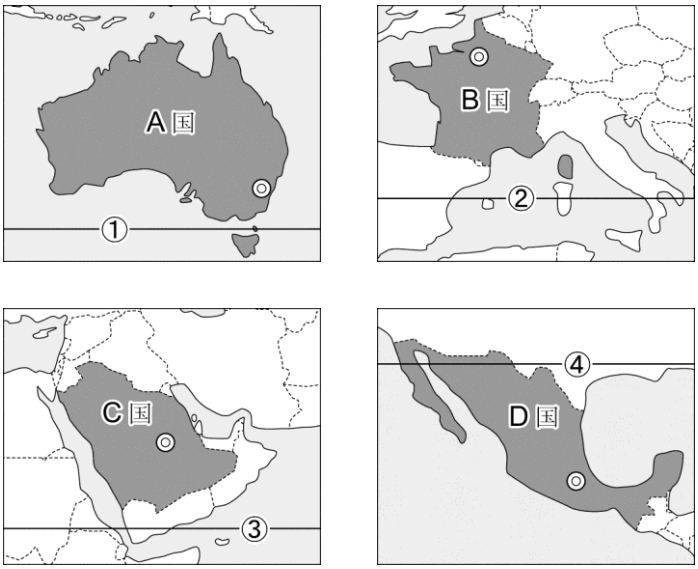

注１：**略地図**中の◎は，首都の位置を示している。　　注２：各地図の縮尺は同じではない。

問１　**略地図**中の①～④の緯線のうち，日本の東北地方を通るものはどれか，①～④から一つ選び，番号で答えなさい。

問２　Ａ国に関連して，次の問いに答えなさい。

(1) **資料Ⅰ**は，Ａ国～Ｄ国の首都の標高や 12 月の平均気温などについてまとめたものです。**ア**～**エ**はＡ国～Ｄ国のいずれかです。Ａ国にあたるものを，**ア**～**エ**から一つ選び，記号で答えなさい。

資料Ⅰ　(2011 年)

	首都の標高 (m)	首都の12 月の平均気温 (℃)	日本への輸出額 (億円)	小麦の生産量 (千ｔ)
ア	635	16.1	40,258	1,364
イ	66	5.3	9,436	38,037
ウ	2,309	14.3	3,169	3,628
エ	575	18.8	45,139	27,410

(『世界国勢図会　2013/14 年版』などから作成)

問３　地球儀上で，Ａ国の首都から南に向かい最短距離で地球を一周する線を引いたとき，その線がＡ国を過ぎたあとに，六大陸のうち，最初に通過する大陸名を書きなさい。

問４　Ｂ国に関連して，次の問いに答えなさい。

世界を分ける六つの州のうち，Ｂ国が属している州について述べた文として適切なものを，次の**ア**～**エ**から一つ選び，記号で答えなさい。

ア　六つの州の中で最も人口が多い。　　**イ**　日本からみて，地球上のほぼ正反対の位置にある。

ウ　世界に先がけて近代工業が発展した。　　**エ**　インド洋と大西洋に面している。

世界地理演習

100 点が取れたら切り取ろう！

第３回　解答

問１　　②

東北地方の岩手県や秋田県を通る北緯 40 度の緯線は，ヨーロッパのイタリア南部やスペイン中部を通る。

問２　　エ

Ａ国のオーストラリアは南半球にあることから，12 月は夏で気温が高い。また，日本への輸出額が多く，小麦の生産もさかんであることから，エとなる。

アはＣ国サウジアラビア，イはＢ国フランス，ウはＤ国メキシコ。

問３　　南極大陸

Ａ国の首都キャンベラから南に向かって最短距離で地球を一周する線を引くと，最初に南極大陸を通り，次にユーラシア大陸を通る。

問４　　ウ

Ｂ国のフランスはヨーロッパ州に属している。アはアジア州，イは南アメリカ州，エはアフリカ州について述べている。

世界地理演習

100点が取れたら切り取ろう！

第４回　問１　４０点　問２　４０点　問３　２０点

点

Ｋさんは，サウジアラビア，中国，オーストラリア及びブラジルの４か国について調べました。次の**地図**をみて，**問１**～**問５**に答えなさい。

地図

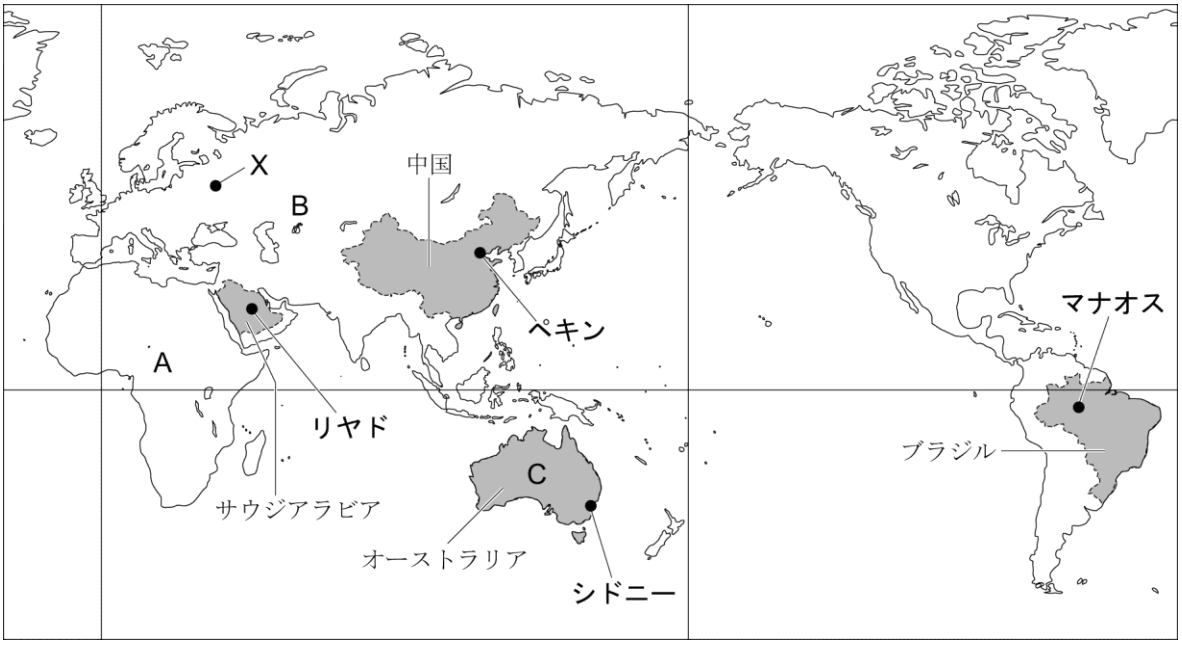

問１　三大洋のうち，**地図**中に示したＡ，Ｂ，Ｃの三つの大陸が共通して面している海洋の名称を書きなさい。

問２　**地図**中に示した都市Ｘの位置を，緯度と経度を用いてあらわすとき，次の文の［ア］と［イ］にあてはまる語を書きなさい。

> 都市Ｘの位置は，およそ［ア］緯56度，［イ］経38度とあらわすことができる。

問３　Ｋさんは，サウジアラビアの人々のくらしと深く結びついている宗教について調べ，次の文章にまとめました。**まとめ**の中の［Ⅰ］と［Ⅱ］にあてはまる語の組み合わせとして正しいものを，下の**ア**～**エ**の中から一つ選び，その記号を書きなさい。

まとめ

> ［Ⅰ］は，西アジアを中心として，北アフリカ，中央アジア，東南アジアにおもに広がっている。人々は，聖地メッカに向かって１日５回の礼拝を行うことや，［Ⅱ］を食べないことなど，さまざまなきまりごとに従って生活している。

ア　Ⅰ　ヒンドゥー教　Ⅱ　牛肉　　**イ**　Ⅰ　イスラム教　Ⅱ　牛肉

ウ　Ⅰ　イスラム教　Ⅱ　豚肉　　**エ**　Ⅰ　ヒンドゥー教　Ⅱ　豚肉

2015　埼玉

世界地理演習

100 点が取れたら切り取ろう！

第４回　解答

問１　インド洋

三大洋は，太平洋，大西洋，インド洋。このうちＡのアフリカ大陸，Ｂのユーラシア大陸，Ｃのオーストラリア大陸の三つが共通して面しているのは，インド洋である。

問２　ア　北（緯）　　イ　東（経）

地図中の緯線は赤道，向かって左の経線は経度０度の本初子午線。都市Ｘは赤道より北だから北緯，本初子午線より東だから東経となる。

問３　ウ

西アジアなどで広く信仰され，聖地がメッカである宗教はイスラム教。イスラム教では，豚肉を食べることを禁じている。牛肉を食べないのは，ヒンドゥー教徒。

世界地理演習

100 点が取れたら切り取ろう！

第５回　問１　２０点×４　　問２　２０点

点

Ｋさんは，サウジアラビア，中国，オーストラリア及びブラジルの４か国について調べました。

地図

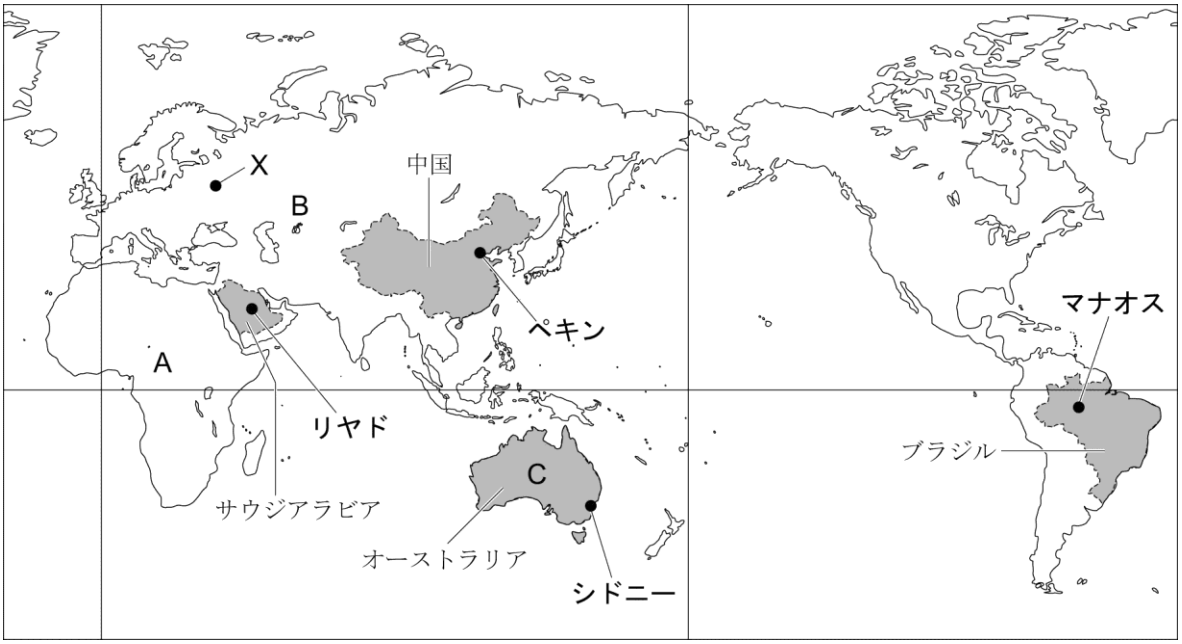

問１　Ｋさんは，**地図**中に示した，**リヤド**，**ペキン**，**シドニー**，**マナオス**の４つの都市の気温と降水量について調べ，あとの**ア**～**エ**のグラフをつくりました。それぞれどの都市の気温図か答えなさい。

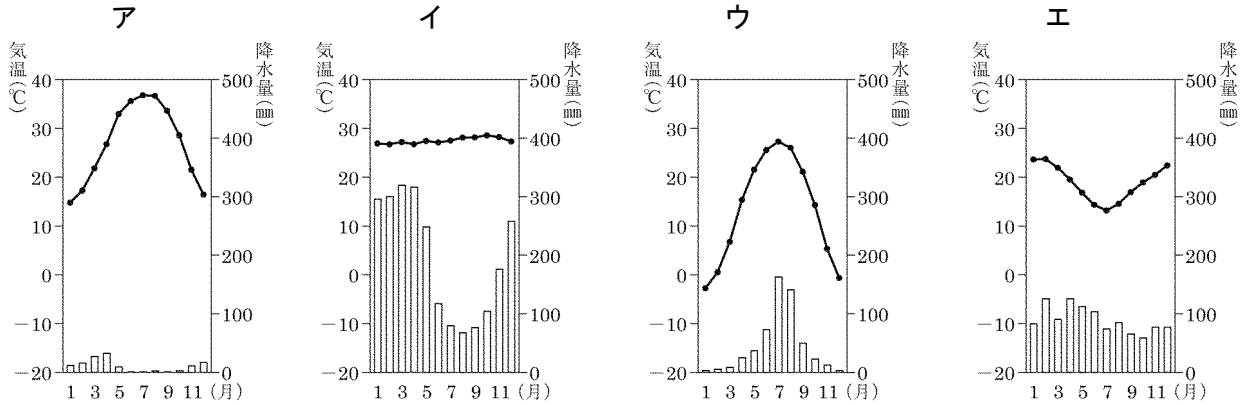

ア　年平均気温 26.6℃　年降水量　139.5mm

イ　年平均気温 27.0℃　年降水量　2323.6mm

ウ　年平均気温 12.9℃　年降水量　534.3mm

エ　年平均気温 18.2℃　年降水量　1032.5mm

(理科年表　平成 26 年から作成)

（ア　　）（イ　　）（ウ　　）（エ　　）

問２　マナオスが属する気候帯は（　　）帯である。

2015 埼玉

世界地理演習

100 点が取れたら切り取ろう！

第５回　解答

問１

ア　リヤド（降水量が少ないから）
イ　マナオス（赤道付近に位置しており、１年を通して気温が高く、降水量も多いから）
ウ　ペキン（冬の気温が低いことから）
エ　シドニー（６～８月の気温が低いことから，南半球に位置する国だとわかるので）

問２　熱帯（一年中高温で降水量も多い）

世界地理演習

100 点が取れたら切り取ろう！

第６回　問１　４０点　　問２　２０点　　問３　４０点

点

略地図

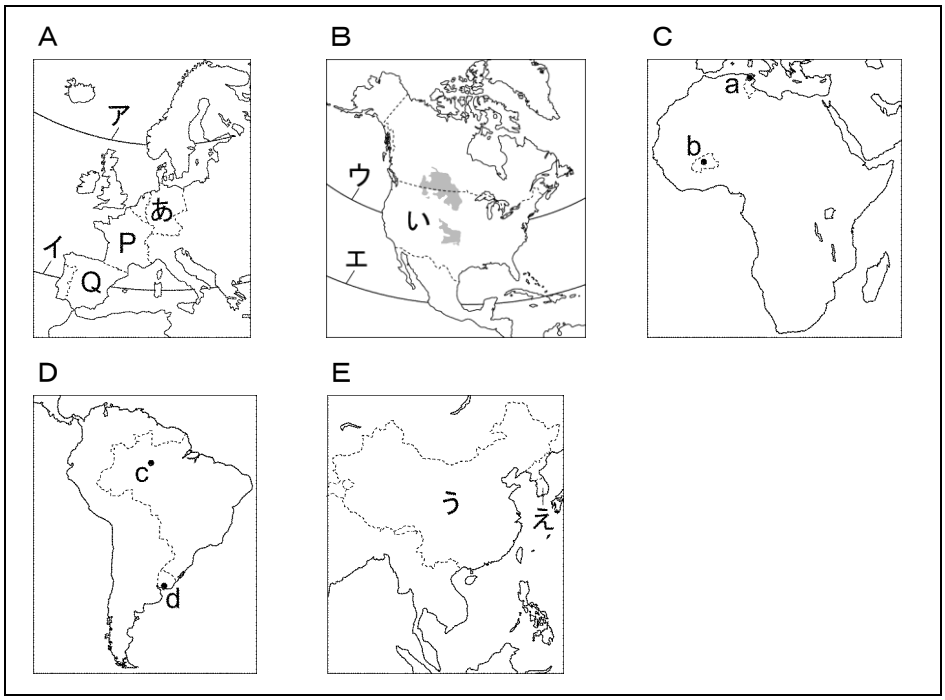

Ａ～Ｅの図法，縮尺は同じではない。

問１　略地図Ａ，Ｂのア～エの緯線（いせん）のうち，日本の本州を通るものを二つ選び，記号で答えよ。

問２　サンフランシスコの空港を現地の時刻で 12 月 1 日午後 5 時に出発する飛行機に乗り，12 時間かかって日本の空港に到着した。到着した時刻は，日本の時刻で何月何日の何時であったか，午前か午後をつけて書きなさい。ただし，サンフランシスコの標準時子午線の経度は，西経 120 度である。2013 徳島

問３　次の表は，地図で示したイタリア，インド，サウジアラビア，ベトナムについて，それぞれの国の人口，人口密度，一人当たり国民総所得，日本への主要輸出品の輸出額の割合を示したものである。表中のＡ，Ｂに当てはまる国名を書きなさい。2013 新潟

	人口（千人）	人口密度（人/km²）	一人当たり国民総所得（ドル）	日本への主要輸出品の輸出額の割合（2011 年：単位%）	
				第１位	第２位
A	27,448	13	16,061	原　油(92.8)	液化石油ガス(3.4)
B	60,551	201	33,423	医　薬　品(19.5)	機　械　類(12.9)
C	87,848	251	1,145	機　械　類(23.1)	衣　類(15.8)
D	1,224,614	373	1,395	石 油 製 品 (33.4)	飼　料(9.3)

世界地理演習

100 点が取れたら切り取ろう！

第６回解答

問１　イ，ウ

日本の東北地方を通る北緯 40 度の緯線は，ヨーロッパではスペインやイタリア南部を，アメリカでは五大湖の南やニューヨーク付近を通る。

問２　12 月　２日　午後 10 時

日本の標準時子午線の経度は東経 135 度だから，日本とサンフランシスコの時差は(135＋120)÷15 より 17 時間で，日本の方が時間が進んでいる。サンフランシスコを出発した時刻は，日本時間の 12 月 2 日午前 10 時。ここから飛行時間が 12 時間かかっているから，日本に着いたのは 12 月 2 日午後 10 時となる。

問３　A サウジアラビア　　B イタリア

日本への輸出品で原油が大部分を占めるＡはサウジアラビア，人口が最も多いＤはインド，一人当たり国民総所得が最も高いＢはイタリア，残るＣがベトナムである。

世界地理演習

100 点が取れたら切り取ろう！

第７回　問１　60 点　　問２　10 点×４

点

問１　**略地図**中の①の線は，緯線を示している。この線が示す緯度は，何度か，**ア**～**エ**から１つ選びなさい。　2013 徳島

ア　北緯 10 度　　**イ**　北緯 20 度

ウ　北緯 30 度　　**エ**　北緯 40 度

略地図

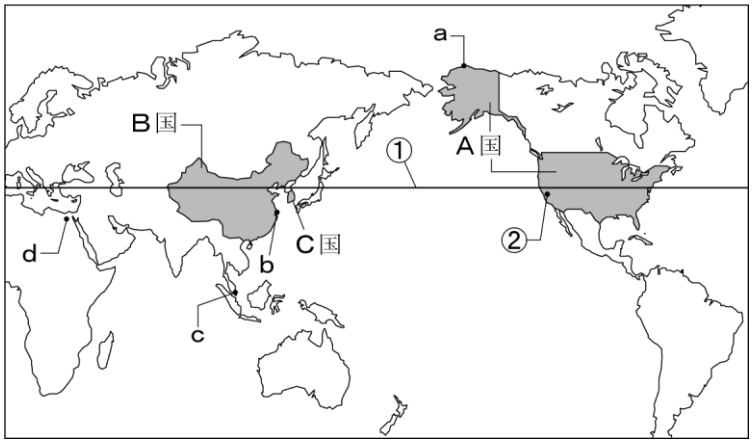

問２　下の略地図を見て，あとのａ～ｄの問いに答えよ。2013 香川

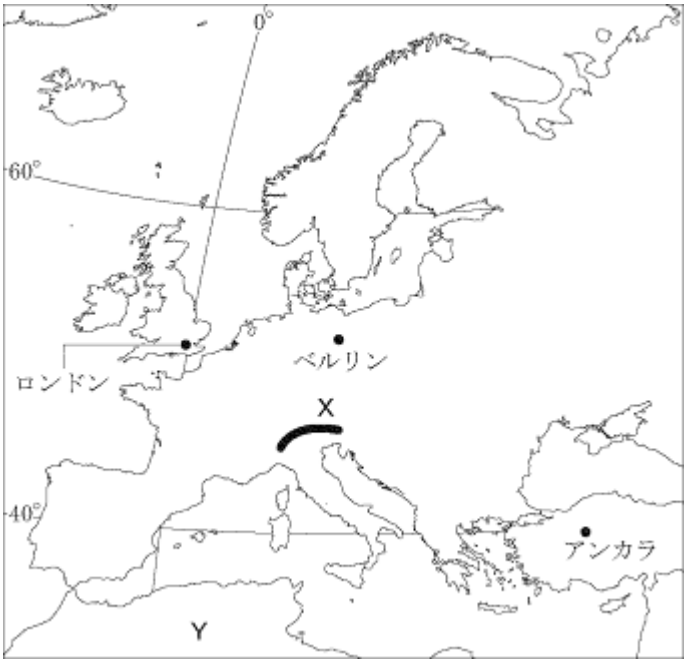

ａ　略地図中にＸで示した山脈を含む，ヨーロッパからアジアにつらなる造山帯は何と呼ばれるか。その造山帯名を書け。

ｂ　略地図中にＹで示した陸地は，六大陸のうちのいずれかの大陸の一部である。この大陸は何と呼ばれるか。その大陸名を書け。

ｃ　略地図中には，北緯 40 度と北緯 60 度の緯線が描かれている。この２本の緯線と，日本の領域との位置関係について述べた次の**ア**～**エ**のうち，正しいものはどれか。一つ選んで，その記号を書け。

ア　北緯 40 度の緯線のみ日本の領域を通る

イ　北緯 60 度の緯線のみ日本の領域を通る

ウ　北緯 40 度の緯線，北緯 60 度の緯線のいずれも日本の領域を通る

エ　北緯 40 度の緯線，北緯 60 度の緯線のいずれも日本の領域を通らない

ｄ　略地図中のロンドン，ベルリン，アンカラの三つの都市のうち，日本が１月 10 日午前６時のとき，その都市の日時が１月９日午後 10 時であるのはどこか。ベルリンは東経 15 度，アンカラは東経 30 度の経線をそれぞれ標準時としているとして，その都市名を書け。

世界地理演習

100 点が取れたら切り取ろう！

第７回解答

問１　エ

①は日本では東北地方を通っていることから，北緯 40 度の緯線である。

問２

ａ　アルプス・ヒマラヤ　　造山帯

Ｘはアルプス山脈。高くけわしい山がつらなる造山帯には，ヨーロッパからアジアにかけてのびるアルプス・ヒマラヤ造山帯と，太平洋をとり囲むようにのびる環太平洋造山帯がある。

ｂ　アフリカ　大陸

ヨーロッパ州の南にある大陸は，エジプトや南アフリカ共和国などがある，アフリカ大陸である。

ｃ　ア

日本は北緯 20～46 度に位置している。北緯 40 度の緯線は日本の東北地方を通る。

ｄ　ベルリン

求める都市の時刻は，日本より８時間遅れている。

日本は東経 135 度の経線を標準時としている。

経度 15 度で１時間の時差が発生するので，日本とロンドンとの時差は 135÷15＝９(時間)，

ベルリンとの時差は(135－15)÷15＝８(時間)，

アンカラとの時差は(135－30)÷15＝７(時間)。

世界地理演習

100 点が取れたら切り取ろう！

第８回　問１　30 点　問２　各 20 点　問３　10 点　問４　各 10 点

点

右の地図を見て，次の**問１**～**問５**の問いに答えなさい。なお，地図中の緯線は赤道を基準にして，また，経線は本初子午線を基準にして，いずれも 30 度間隔で表している。2013 新潟

問１　６大陸のうち，地図中にすべての陸地が示されている大陸が二つある。それぞれの大陸の名称を書きなさい。

問２　地図中の地点 X，Y について，次の①，②の問いに答えなさい。ただし，地点 X，Y は，地図中に示した緯線と経線が交わった場所である。

①　地点 X の位置の，緯度と経度を書きなさい。

②　地点 X が，2013（平成 25）年１月 15 日 19 時のとき，地点 Y は１月何日の何時であったか，書きなさい。なお，地点 X，Y の標準時は，それぞれを通る経線で決められている。

問３　右の写真は，地図中の**ア**～**エ**のいずれかの地点の景観を示したものである。この景観がみられる地点として，最も適当なものを，地図中の**ア**～**エ**から一つ選び，その符号を書きなさい。



問４　右のグラフは，地図中の P，Q のいずれかの地点の，月降水量と月平均気温を表したものである。このグラフは地点 P，Q のいずれのものか。その符号と，そのように判断した理由を，それぞれ書きなさい。なお，棒グラフは月降水量を，折れ線グラフは月平均気温を表している。

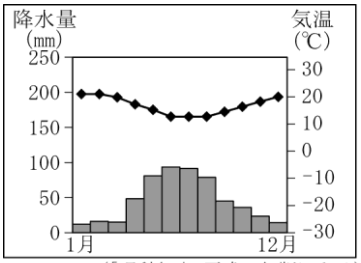

（「理科年表」平成24年版による）

世界地理演習

100 点が取れたら切り取ろう！

第８回解答

問１　ユーラシア大陸　　アフリカ大陸

６大陸とは，ユーラシア大陸，アフリカ大陸，北アメリカ大陸，南アメリカ大陸，オーストラリア大陸，南極大陸である。

このうち地図中には，ユーラシア大陸とアフリカ大陸がすべて表示されている。

問２　①北緯 30 度　　東経 30 度

ウの北を通る緯線が緯度０度の赤道，**イ**の西を通る経線が経度０度の本初子午線である。[X]は赤道より北に位置するから北緯，本初子午線より東に位置するから東経で表される。

問２　②１月　16 日　１時

地点[X]と地点[Y]の経度差は 90 度。経度 15 度で１時間の時差が生じるから，90÷15＝６より，地点[X]より東に位置する地点[Y]は，地点[X]より６時間進んでいることになる。

問３　ウ

樹木のまばらな草原が広がっていることから，熱帯のサバナ気候で見られる景観である。熱帯に属するのは，赤道に近い**ウ**である。

問４　符号 Q　理由：**気温をみると，６月から８月までが低く，12 月から２月までが高いため。**

６～８月に気温が低く，12～２月に気温が高いことから，南半球の温帯の都市のグラフである。

世界地理演習

100 点が取れたら切り取ろう！

第９回　問１　①30 点　②10 点×2　　問２　X20 点　Y30 点

点

次の**地図１～３**を見て，あとの**問１～問５**の問いに答えなさい。ただし，**地図１～３**の縮尺は異なっている。

地図１

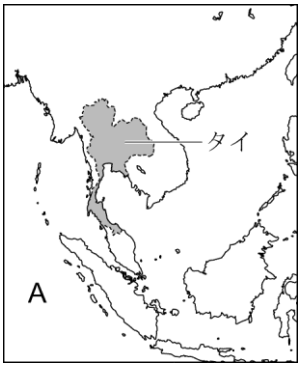

地図２

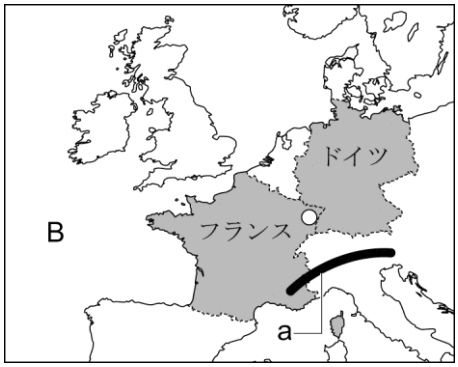

地図３

問１　**地図１～３**について，次の①，②の問いに答えなさい。

①　地図中の**Ａ～Ｄ**は，それぞれ，三つの海洋（大洋）のいずれかを示したものである。**Ａ～Ｄ**について述べた文として，正しいものを，次の**ア～エ**から一つ選び，その符号を書きなさい。

ア　**Ａ**は太平洋，**Ｂ**と**Ｄ**は大西洋，**Ｃ**はインド洋である。

イ　**Ｂ**は太平洋，**Ａ**と**Ｃ**は大西洋，**Ｄ**はインド洋である。

ウ　**Ｃ**は太平洋，**Ｂ**と**Ｄ**は大西洋，**Ａ**はインド洋である。

エ　**Ｄ**は太平洋，**Ａ**と**Ｃ**は大西洋，**Ｂ**はインド洋である。

②　地図中の**ａ**，**ｂ**は，それぞれ山脈を示したものである。それぞれの名称として，正しいものを，次の**ア～カ**から一つずつ選び，その符号を書きなさい。

ア　ロッキー山脈　　**イ**　ヒマラヤ山脈　　**ウ**　アパラチア山脈　　ａ（　　）

エ　アルプス山脈　　**オ**　アンデス山脈　　**カ**　ウラル山脈　　ｂ（　　）

問２　**地図１**で示したタイについて述べた，次の文中の［Ｘ］，［Ｙ］に当てはまる用語を，それぞれ書きなさい。

> 海洋から内陸に向けて吹く［Ｘ］の影響を受けて降水量が多い平野部では，稲作が盛んである。タイとその周辺の国々は，1967 年に創設された［Ｙ］に加盟しており，現在では 10 の加盟国が政治や経済などの面で協力している。

世界地理演習

100 点が取れたら切り取ろう！

第 9 回解答

問１　　①ウ

Ａはインド洋，Ｂと Ｄは大西洋，Ｃは太平洋である。

問１　　②a エ　b オ

ヨーロッパの南部に連なる a はアルプス山脈，南アメリカ大陸の太平洋側に連なる b はアンデス山脈である。

問２　　Ｘ季節風（モンスーン）　　Ｙ東南アジア諸国連合（ＡＳＥＡＮ）

季節によって風向きが変わる風を，季節風（モンスーン）という。また，東南アジアの 10 か国が加盟する地域協力機構を，東南アジア諸国連合（ＡＳＥＡＮ）という。

世界地理演習

100 点が取れたら切り取ろう！

第１０回

問１　①30 点　②20 点　問２　10 点　問３　10 点　問４　30 点

点

問１　**地図２**で示したドイツとフランスについて，次の①，②の問いに答えなさい。2014 新潟

①　ドイツとフランスなど，多くのヨーロッパ連合（ＥＵ）加盟国で流通している共通（単一）通貨を何というか。その名称を書きなさい。

②　右の写真は，**地図２**に〇で示したフランスのストラスブール市から，ドイツのケール市につながる橋のようすを示したものである。この写真を参考にして，多くのヨーロッパ連合（ＥＵ）加盟国の間での通行の特徴について，「国境」，「パスポート」という語句を用いて書きなさい。

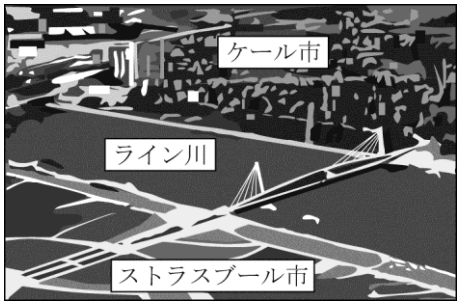

問２　**地図３**で示したブラジルでは，石油にかわるエネルギーとして，さとうきびなどを原料とした燃料の生産が拡大している。このように，主に植物を原料として作られる燃料を何というか。その用語を書きなさい。2014 新潟

問３　次の表は，**地図１～３**で示したタイ，ドイツ，フランス，ブラジルについて，それぞれの国の穀物生産量，穀類自給率，一人当たり国民総所得，主要輸出品の輸出額の割合を示したものである。このうち，フランスに当てはまるものはどれか。表中の**ア～エ**から一つ選び，その符号を書きなさい。2014 新潟

	穀物生産量(千t)	穀類自給率(%)	一人当たり国民総所得(ドル)	主要輸出品の輸出額の割合(%)		
				第１位	第２位	第３位
ア	77,586	98	12,356	鉄鉱石(16.3)	原　油(8.4)	機械類(7.7)
イ	65,688	174	43,446	機械類(19.8)	自動車(8.9)	航空機(8.6)
ウ	41,938	124	44,682	機械類(27.6)	自動車(16.3)	医薬品(4.7)
エ	39,716	142	5,128	機械類(28.3)	自動車(7.8)	天然ゴム(5.8)

（「世界国勢図会」2013/14 年版より作成）

問４　**資料３**において，小麦の生産量が世界２位のインドが，輸出量では上位に入っていない原因を次の語を使って，説明しなさい。2013 富山

［　**人口**　］

資料３　小麦の国別生産量と輸出量の割合(2009年)

（「世界国勢図会2011/2012, 2012/2013」より作成）

世界地理演習

100 点が取れたら切り取ろう！

第 10 回解答

問１　①ユーロ

ヨーロッパ連合（ＥＵ）の多くの国々では，共通通貨としてユーロが流通している。イギリスなど，ユーロを導入していない国もある。

問１　②国境でパスポートを見せることなく，自由に通行することができる。

国境を越えるときは通常パスポートを見せる必要があるが，ＥＵ加盟国内ではパスポートを見せることなく，自由に国境を通過できる。

問２　バイオ燃料（バイオエタノール）

さとうきびやとうもろこしなどを原料としてつくられる燃料を，バイオ燃料（バイオエタノール）という。ブラジルでは自動車の燃料として利用されている。

問３　イ

鉄鉱石の輸出額の割合が高い**ア**はブラジル，一人当たり国民所得が最も低い**エ**はタイである。一人当たり国民総所得が高い**イ**と**ウ**はフランスかドイツのいずれかで，穀類自給率が高い**イ**がフランス，**ウ**がドイツ。

問４　人口が多く国内での消費量が多いため。

インドは人口が多いため，生産される小麦の大部分が国内で消費されていると考えられる。

世界地理演習

100 点が取れたら切り取ろう！

第１１回

問１　30 点　問２　完答 20 点　問３　各 10 点　問４　15 点×２

点

次の**地図**や**資料**をみて，あとの問いに答えなさい。2013 富山

地図

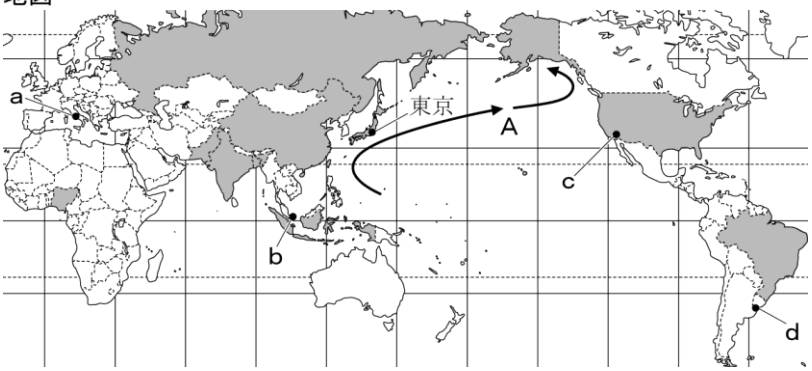

問１　**地図**中の日本付近を流れるＡの海流名を書きなさい。

問２　次の文は，**地図**中の都市ａ～ｄのうち，どの都市について説明した文か。

ａ～ｄから１つ選び，記号とその都市がある国名を書きなさい。　（　記号：　　）（　国名：　　）

この都市は，日本より日の出が遅く，日本と異なる造山帯が通る半島の国にあり，温帯に属している。

問３　**資料１**の都市Ｘは，**地図**中の都市ａ～ｄのいずれかの都市である。どの都市か，ａ～ｄから１つ選び，記号を書きなさい。また，選んだ理由を東京の月別の気温と降水量と比較し，次の語を使って説明しなさい。

［　**気温**　］

記号：

説明：

資料１　都市Ｘと東京の月別の気温と降水量

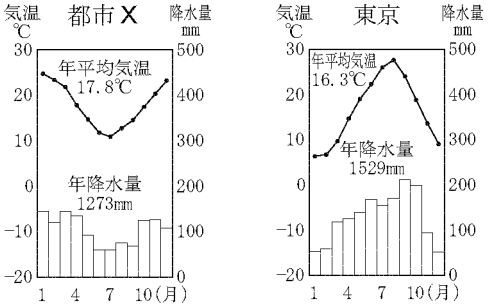

(「理科年表」平成 24 年より作成)

問４　**地図**中に▒で示した国は 2010 年において人口の多い国上位 10 か国である。**地図**と**資料２**，３をみて，以下の問いに答えなさい。

地図中の▒で示した国を，州別に分類したときこれらの国を最も多く含む州は**資料２**のⅠ～Ⅲのいずれかである。その記号と州名を書きなさい。

記号：

州名：

資料２　州別人口の推移（単位　百万人）

州	1970 年(%)	1990 年(%)	2010 年(%)
Ⅰ	2,135(57.8)	3,199(60.3)	4,164(60.4)
アフリカ	368(10.0)	635(12.0)	1,022(14.8)
Ⅱ	656(17.7)	720(13.6)	738(10.7)
北アメリカ	326(8.8)	429(8.1)	542(7.9)
Ⅲ	191(5.2)	296(5.6)	393(5.7)
オセアニア	20(0.5)	27(0.5)	37(0.5)
世界人口	3,696	5,306	6,896

注：(　)内は世界人口に占める州別人口の割合

(「総務省統計局世界の統計 2012」より作成)

世界地理演習

100 点が取れたら切り取ろう！

第 11 回解答

問１　日本海流（黒潮）

Ａは日本付近の太平洋を南から北へ流れる暖流だから，日本海流（黒潮）。日本付近の太平洋を北から南へ流れる寒流は，千島海流（親潮）である。

問２　記号：a　　国名：イタリア

日本には環太平洋造山帯に通っているから，求める都市の国は，ユーラシア大陸の南部を東西にのびるアルプス・ヒマラヤ造山帯が通っていることになる。都市ｂは熱帯に属している。

問３　記号：d　　理由：**気温の変化が東京と対照的で南半球に位置する都市と考えられるから。**

東京が夏の時期に気温が低く，東京が冬の時期に気温が高いことから，都市Ｘは東京と季節が逆になる南半球の温帯の都市である。

問４　記号：　Ⅰ　　州名：アジア州

人口の多い上位 10 か国には，中国，インドなどアジア州の国が最も多く含まれる。州別人口が最も多いⅠがアジア州である。

世界地理演習

100 点が取れたら切り取ろう！

第１２回　全て 2015 北海道

各 25 点

点

問１　略地図を見て，次の(1)，(2)に答えなさい。

略地図

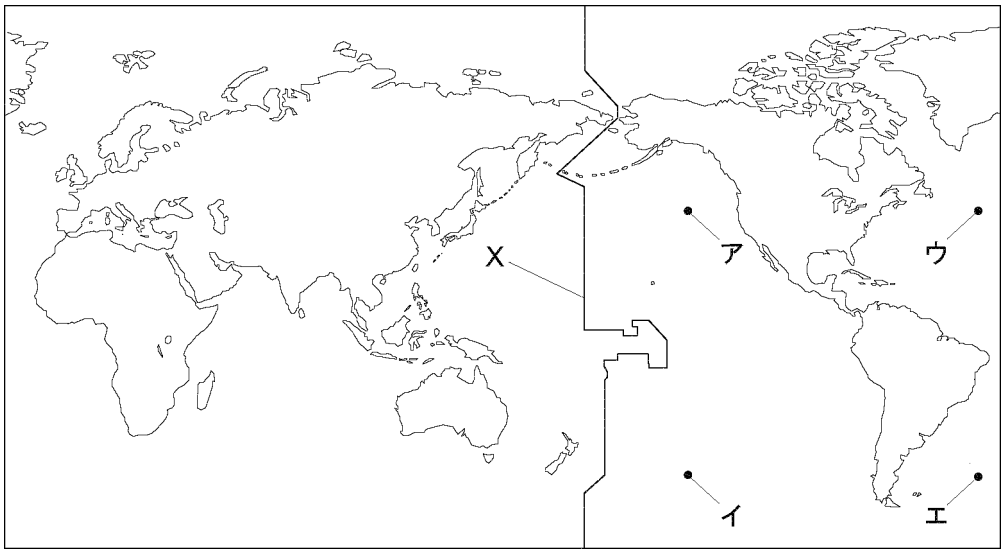

(1) X で示した，ほぼ 180 度の経線に沿って陸地にかからないように引かれている線の名を書きなさい。

(2) 北海道と，地球の中心に対してほぼ正反対の地点を，**ア～エ**から選びなさい。

問２　表１は，世界の国の中で，2013 年における人口の多い国を上位３位まで示したものです。次の(1)，(2)に答えなさい。

表１

順位	国　名	人口（百万人）
１位	中　国	1,386
２位	□	1,252
３位	アメリカ	320

(総務省統計局「世界の統計 2014 年版」より作成)

(1) □ に当てはまる国の名を書きなさい。

(2) 下線部の国の首都の名を書きなさい。

世界地理演習

100 点が取れたら切り取ろう！

第 12 回解答

問 1

（1） 日付変更線

ほぼ経度 180 度の経線に沿って日付変更線がひかれている。この線を西から東にまたぐときは日付を 1 日遅らせ，東から西にまたぐときは日付を 1 日進める。

（2）エ

札幌の緯度がほぼ北緯 43 度，経度がほぼ東経 141 度なので，札幌と地球の中心に対してほぼ正反対の地点は，南緯 43 度，西経 39 度となる。

★地球の反対位置の探し方

①北緯⇔南緯を変える（例：北緯 43 度→南緯 43 度）

②東経⇔西経を変える

③東経＋西経＝180 度になるように度数を変える（東経 141 度→西経 39 度）

問 2 （1）インド

（2）北京

世界地理演習

100 点が取れたら切り取ろう！

第１３回　問１　20 点　　問２　40 点　　問３　40 点

点

問１　**図１**と**図２**は，いずれも緯線が赤道を基準に 15 度ずつ，経線が本初子午線（ほんしょしごせん）を基準に 15 度ずつで表されている。日本を地球の中心に対して正反対の地点に置いた場合，茨城県は**図２**のどの範囲に位置するか。15 度ずつの緯線と経線に囲まれた範囲を一つ選んで，記入例を参考にしてぬりつぶしなさい。2015 茨城

図１

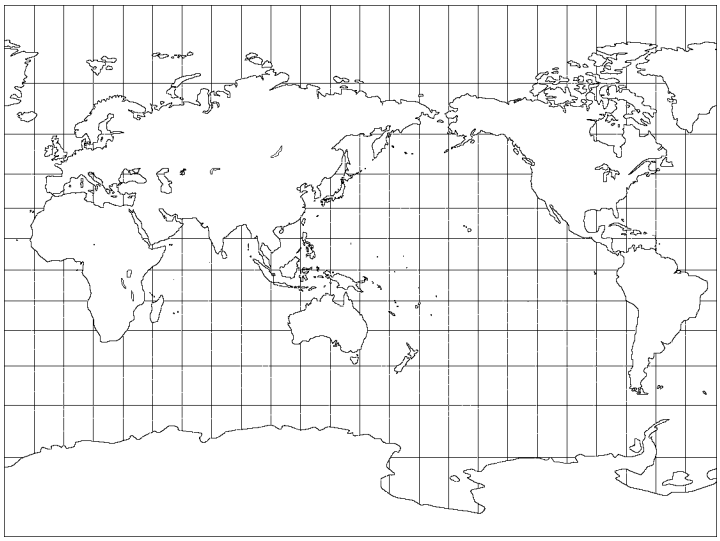

図２

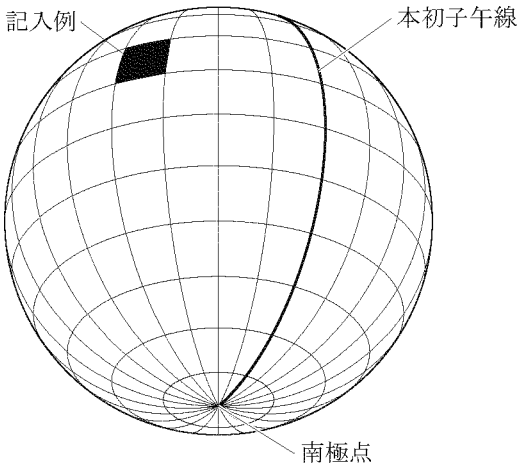

問２　赤道が通っている大陸は，南アメリカ大陸と［　　］大陸である。

ア　北アメリカ　　**イ**　アフリカ　　**ウ**　南極　　**エ**　オーストラリア

問３　北海道の東にある［　　］は，択捉島，国後島，色丹島，歯舞群島からなり，現在，ロシアとの間に領土問題が存在する。

世界地理演習

100 点が取れたら切り取ろう！

第 13 回解答

問 1

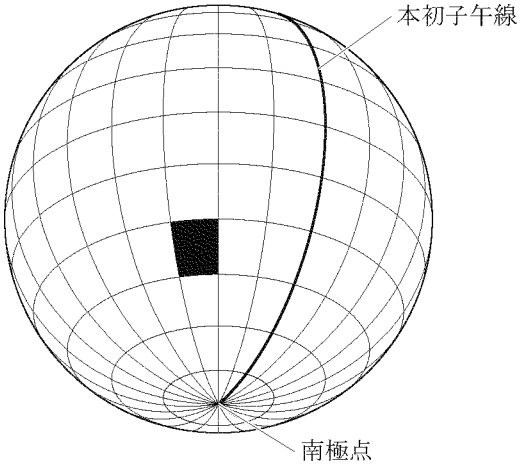

茨城県は，北緯 30～45 度，東経 135～150 度の範囲に位置する。この範囲の，地球の中心に対して正反対にあたるのは，南緯 30～45 度，西経 30～45 度の範囲である。

問２　イ

赤道は，南アメリカ大陸の北部やアフリカ大陸の中央を通っている。

問３　北方領土

世界地理演習

100 点が取れたら切り取ろう！

第１４回　問１　各 20 点　　問２　40 点　全て 2015 神奈川

点

略地図Ⅰ

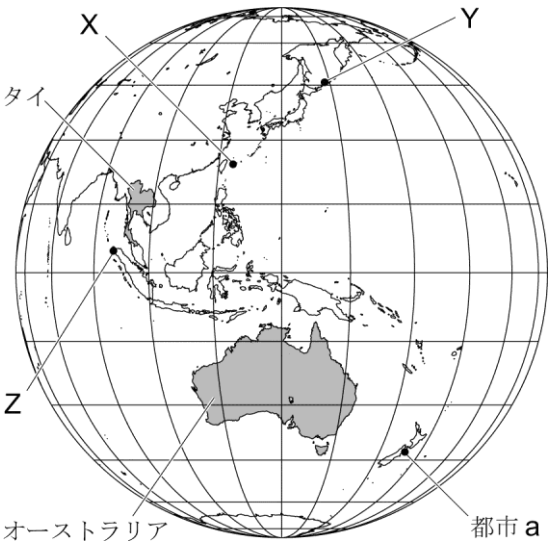

略地図Ⅱ

問１　**略地図Ⅰ**にある都市ａ，**略地図Ⅱ**にある都市ｂと都市ｃに関して，月ごとの平均気温と降水量をあらわした次の１～３のグラフの中からあてはまるものを，**それぞれ一つずつ**選び，その番号を書きなさい。

グラフ

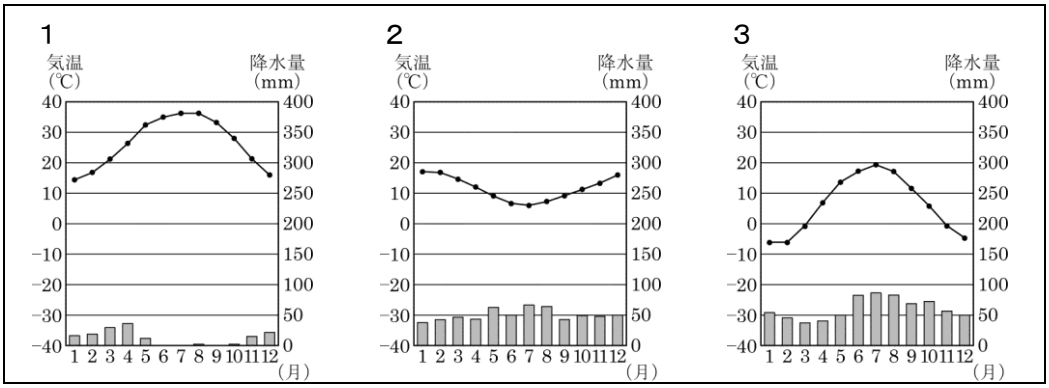

(『理科年表平成 26 年』により作成)

都市ａ：　　都市ｂ：　　都市ｃ：

問２　**略地図Ⅱ**の都市ｄに関して，日本時間が２月 16 日午後３時のときの都市ｄの日時を，午前もしくは午後という語句を必ず用いて書きなさい。なお，都市ｄの標準時の基準となる経度は，都市ｄが位置する経度と同じものとする。

世界地理演習

100 点が取れたら切り取ろう！

第 14 回　解答

問１　　都市ａ：２　　都市ｂ：３　　都市ｃ：１

都市ａは南半球に位置していることから，日本と季節が逆になっている２。

都市ｂは冷帯気候であることから，冬の気温が低い３。

都市ｃは乾燥帯気候であることから，降水量が少ない１。

問２　２月　16 日　午前３時

まず①標準時の基準となる経度を求めると，標準時子午線（0 度）が通るロンドンを基準にみると都市ｄは西へ経線が 3 本目だから 15 度×３＝４５度)，

②東経 135 度と西経 45 度の時差は、(135＋45)÷15 より 12 時間だとわかる。

③都市ｄの時刻は日本より 12 時間遅れていることから，日本の時間から 12 時間引いて２月 16 日午前３時となる。

世界地理演習

100 点が取れたら切り取ろう！

第１５回　問１　各 20 点　　問２　40 点

点

問１　０度の経線と０度の緯線が交わる位置を**地図２**の**ア**～**エ**から１つ選び，記号を書きなさい。2015 長野

問２　**地図２**には直線の国境が多く見られる。その理由をアフリカ州が置かれていた歴史的背景に着目して，簡潔に書きなさい。

2015 長野

地図２

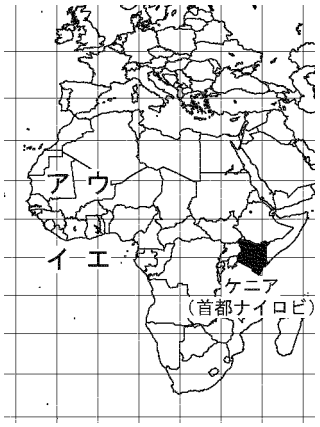

問３　下線①付近を通る**略地図１**の緯線Ａと同緯度の緯線を，**略地図２**の**ア**～**エ**から一つ選び，符号で書きなさい。

問４　**略地図１**のＸの大洋の名を書きなさい。

問５　下線②について，ＥＵで導入されている共通通貨の名を書きなさい。

略地図１

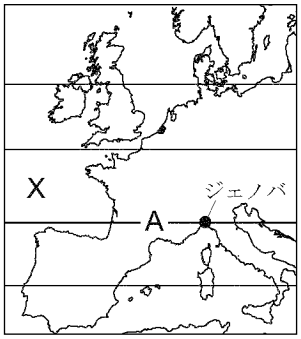

略地図２

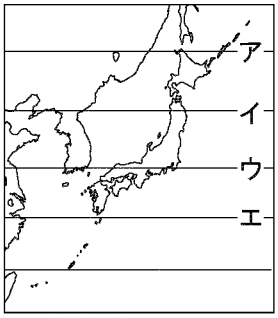

2015 岐阜

［留学先のオーストラリアと周辺諸国］

- オーストラリアは，ニュージーランドやフィジーなどとともに [a] 州を構成する国の一つである。
- ニュージーランドの山は，日本の山と同様に，新しい造山帯の一つである [b] 造山帯に属し，高くけわしい山が多い。
- オーストラリアの先住民は，[c] とよばれている。

略地図

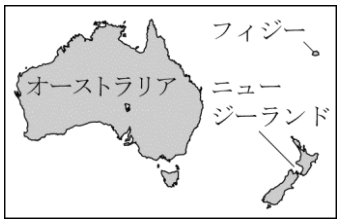

問６　[a]，[b] にあてはまることばを，それぞれ書きなさい。2014 岐阜

問７　[c] にあてはまることばを，**ア**～**エ**から一つ選び，符号で書きなさい。

ア　マオリ　**イ**　アボリジニ　**ウ**　メスチソ　**エ**　イヌイット

世界地理演習

100 点が取れたら切り取ろう！

第 15 回解答

問１　エ

０度の経線である本初子午線は，イギリスのロンドン郊外の旧グリニッジ天文台の上を通る。０度の緯線である赤道は，ギニア湾やケニアを通る。

問２　植民地であったから（例）

直線の国境とは，緯線や経線を利用した国境のことで，アフリカがヨーロッパ諸国の植民地にされた時代に引かれたものである。

問３　　ア

日本の東北地方を通るイの北緯 40 度の緯線が，イタリアの南部を通るＡの１本下の緯線にあたることから，緯線Ａとアと同緯度である。

問４　　大西洋

Ｘは，ユーラシア大陸，アフリカ大陸と南北アメリカ大陸に囲まれた大西洋である。

問５　　ユーロ

ＥＵでは，2002 年に共通通貨ユーロの流通が始まった。ユーロを導入していない国もある。

問６　a：オセアニア　　b：環太平洋

オーストラリアやニュージーランド，太平洋の島国などは，オセアニア州にふくまれる。

また，日本やニュージーランドは，太平洋を囲む造山帯である環太平洋造山帯に属している。

問７　イ

オーストラリアの先住民はアボリジニ。

マオリはニュージーランドの先住民である。

メスチソは南アメリカ州の白人と先住民との混血

イヌイットはカナダやアラスカなど北極海周辺に住む先住民。